ZADANIA KONKURSOWE W TYGODNIU PATRIOTYCZNYM

1. **Podaj nazwę ilustracji**

.....

2. **Nazwij cztery postacie na ilustracji**
   - **a)** .....
   - **b)** .....
   - **c)** .....
   - **d)** .....
3. **Podaj daty trzech rozbiorów Polski:**
   - **a)** .....
   - **b)** .....
   - **c)** .....
4. **Wymień cztery działania podjęte w XVIII wieku, które Twoim zdaniem mogły zapobiec rozbiorom Polski:**
   - **a)** .....
   - **b)** .....
   - **c)** .....
   - **d)** .....
5. **Do wymienionych nazwisk przyporządkuj odpowiadające im opisy.**

a) Stanisław Konarski	1. ostatni król Polski
b) Stanisław Leszczyński	2. założyciel Collegium Nobilium
c) Grzegorz Piramowicz	3. król polski, autor dzieła Głos wolny wolność ubezpieczający
d) Hugo Kołłątaj	4. pisarz, pedagog, działacz Towarzystwa do Ksiąg Elementarnych
e) Ignacy Krasicki	5. reformator uniwersytetów w Krakowie i Wilnie, zwanych odtąd Szkołami Głównymi
	6. Biskup warmiński, poeta, autor Monachomachii

a	b	c	d	e

6. **Poniżej zamieszczono 3 mapy konturowe. Przyporządkuj im właściwe tytuły.**

a) III rozbiór polski **b)** II rozbiór polski

c) I rozbiór polski **d)** Rzeczpospolita w XVII wieku

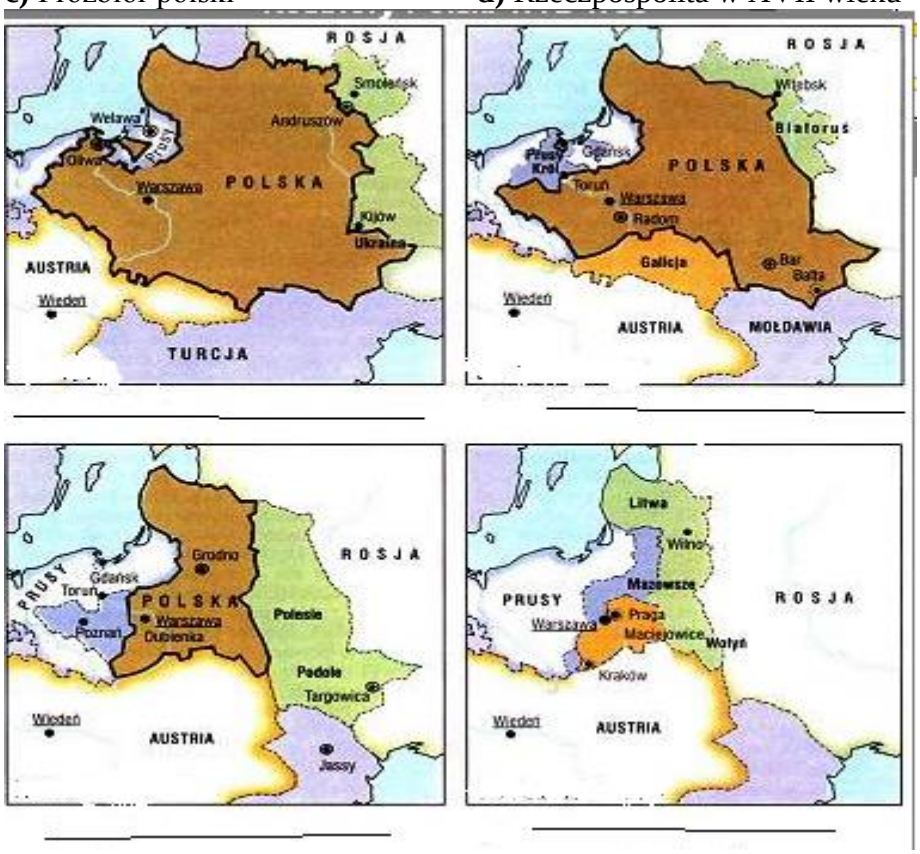

Przyjrzyj się mapom i rozwiąż zadania.

Mapa 1

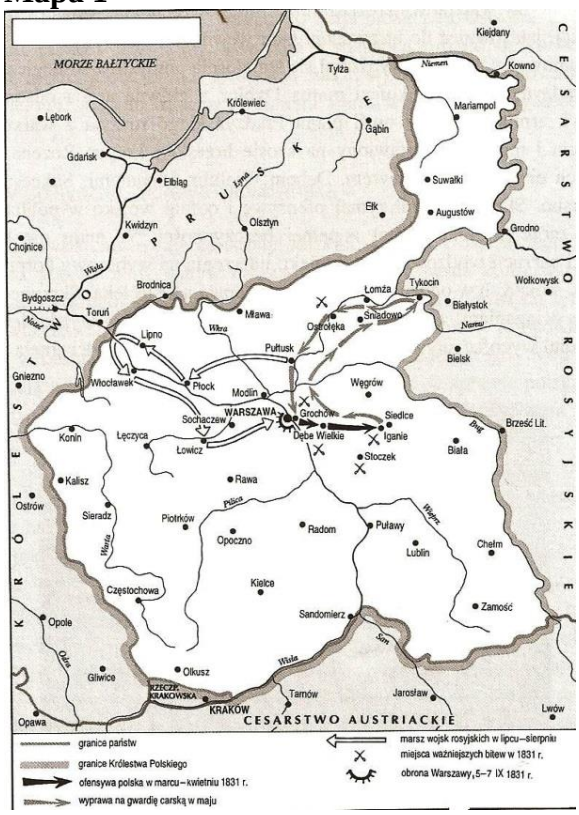

Mapa 2

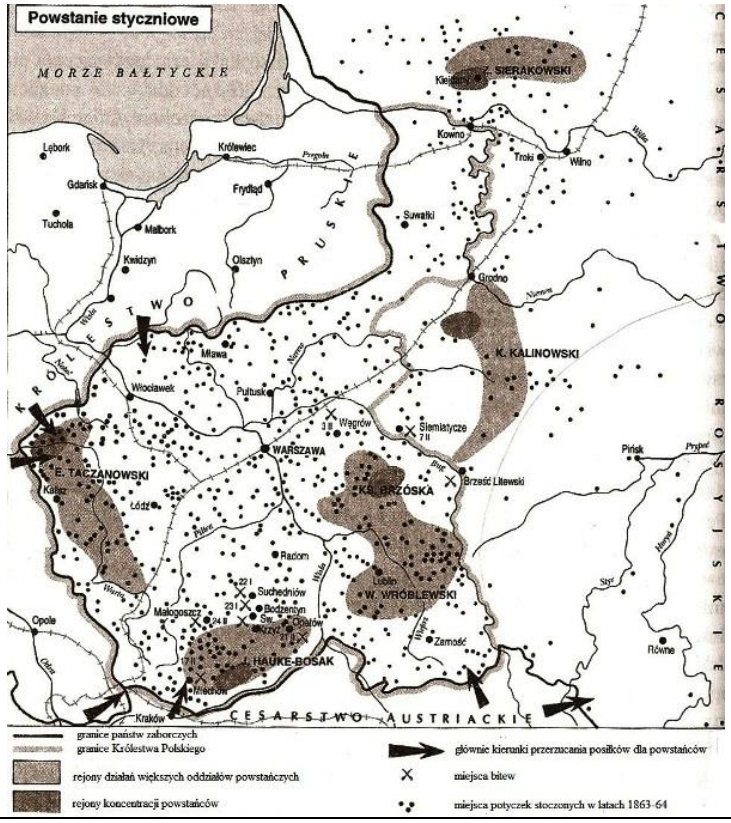

7. **Wybierz poprawny tytuł mapy 1.**

A. Wojna polsko-rosyjska w 1831 roku.

B. Przygotowania do wybuchu powstania listopadowego.

C. Obrona Warszawy przed wojskami rosyjskimi w 1831 roku.

D. Wkroczenie wojsk rosyjskich do Królestwa Polskiego w 1830 roku.

8. **Z mapy 2 możesz dowiedzieć się,**

A. w jakim mieście wybuchło powstanie.

B. gdzie przebiegała linia frontu.

C. na jakich obszarach doszło do walk powstańczych.

D. na jakich obszarach koncentrowały się wojska rosyjskie.

9. **Na podstawie obu map wskaż szereg, zawierający parę prawidłowych twierdzeń. Podkreśl ten szereg.**

Szereg A
mapa 1 Regularna armia jedynie broniła Warszawy
mapa 2 Regularna armia podjęła atak na Królestwo

Szereg B
mapa 1 Oddziały partyzanckie operowały jedynie na obszarze Małopolski
mapa 2 Oddziały partyzanckie operowały jedynie w Królestwie Polskim

Szereg C.
mapa 1 Armia partyzancka podjęła działania ofensywne przeciw Rosjanom
mapa 2 Regularna armia broniła Królestwa Polskiego

Szereg D
mapa 1 Regularna armia podjęła działania ofensywne przeciw Rosjanom
mapa 2 Powstańcy prowadzili walki partyzanckie na obszarze zaboru rosyjskiego

10. **Przeczytaj uważnie tekst i odpowiedz na pytania:**

Marzenia o odzyskaniu samoistności zewnętrznej ustąpić dziś winny staraniom o samodzielność wewnętrzną. Samodzielność ta zaś może być tylko wynikiem wzmocnienia sił umysłowych i materialnych, wszechstronnego rozwoju narodowego, skojarzonego z postępem ogólnym, oraz demokratyzacji społeczeństwa, powołującej do działania w nim pierwiastki nierozbudzone i niedojrzałe.

Na podstawie: http://www.swietochowski.domenapubliczna.info

a) **Kogo autor określa jako "pierwiastki nierozbudzone i niedojrzałe"?**
.....

b) **Jaki program prezentuje ten tekst? .....**